اسم الطالبة:

.....

ورقة عمل

المادة : التربية الفنية

الموضوع: الرسم من الطبيعة

أكملي ما يلي:

الباستيل	فرشاة مدببة	الطبيعة

استخدم الفنانون جميع أنواع الألوان في رسم ..... فمنهم من استخدم ألوان ..... ومنهم من استخدم الألوان الزيتية.

لرسم جذوع الأشجار والأغصان نستخدم ..... .

ضعي علامة (✓) أمام العبارة الصحيحة وعلامة (×) أمام العبارة الخاطئة:



ألوان الجواش: هي ألوان مائية شفافة.

يعتبر الاسكتش من أهم خطوات رسم الطبيعة.

تعتبر الطبيعة هي المصدر الأول والأهم لإبداعات الفنان السعودي.

المادة : التربية الفنية

ورقة عمل

اسم الطالبة:

.....

الموضوع : علاقات لونية

أحيطي الإجابة الصحيحة:

اختلاف الألوان عند تجاورها وتزداد قوتها عند ارتفاع زيادة الاختلاف.

- مزج الألوان
- التباين اللوني
- التوافق اللوني

مزج اللون الأحمر مع اللون الأزرق ينتج عنه اللون.

- البرتقالي
- البنفسجي
- الأسود

أجيبي بنعم أو لا:

يتأثر اللون عندما يحاط بغيره من الألوان.

(.....)

التوافق اللوني: هو نصوع اللون دون أي إضافات أخرى.

(.....)

المادة : التربية الفنية

ورقة عمل

اسم الطالبة:

.....

الموضوع : تعتيق الالوان

أكملي ترتيب خطوات التعتيق:

قص سفنجة التعتيق.

...



دهن الجدار بالأساس.

...

دهن الجدار بفرشاة جافة قبل جفاف اللون.

...

ملء السفنجة بالماء وتحريكها بشكل دائري وعشوائي.

٣

صح أم خطأ!

للألوان تأثير قوي على سلوكنا وحالتنا النفسية.
( )

استخدمت الزخارف والرسوم بكثرة في الجدران الداخلية للمنازل في الوقت الحاضر فقط. ( )

استخدم الإنسان الألوان لطلاء الجدران من قديم الزمان. ( )



المادة : التربية الفنية

ورقة عمل

اسم الطالبة:

.....

الموضوع: قصة وطن

ارسمي دائرة حول الإجابة الصحيحة:

بدأت التطورات الحضارية في جميع جوانب الحياة بحلول عهد الملك:

- عبد الله بن عبد العزيز.
- عبد العزيز (رحمه الله).
- فهد بن عبد العزيز (رحمه الله).
- جميع ما سبق.

ضعي علامة (صح) أمام العبارة

احتفل بعض الفنانين بمناسبة مرور مئة عام على تأسيس الدولة السعودية بعمل لوحات بالحاسب الآلي لهذه المناسبة.

لم يقتصر الفنان على اللوحات الفنية بل تجاوزها إلى المجسمات الجمالية.

عند بداية الفن التشكيلي السعودي كانت أغلب اللوحات تهتم بالنواحي الطبيعة والتراث فقط.

اسم الطالبة:

.....

ورقة عمل

المادة : التربية الفنية

الموضوع : رسم وحدة زخرفية هندسية



أكملي مكان النقط بما هو مناسب من بين القوسين:

(العلاقات ـ المستقيمة ـ زخارف ـ تلاقي)

الوحدات الزخرفية الهندسية هي ..... تعتمد على التكوينات التي يمكن تشكيلها من ..... الخطية الناتجة عن ..... بعض أنواع الخطوط ..... والمنحنية بأنواعها.

رتبي خطوات رسم وحدة زخرفية هندسية:

نختار الشكل الهندسي ونرسمه بقلم الرصاص والأدوات الهندسية.

.....

نقسم الشكل الهندسي إلى محاور أو أقطار.

.....

نزخرف الشكل الهندسي بوحدات زخرفية نباتية أو هندسية، ثم نلونها بألوان الفلوماستر.

.....

المادة : التربية الفنية

ورقة عمل

اسم الطالبة:

.....

الموضوع : تكرار الوحدة الزخرفية الهندسية علي اسطح الخدمات

ضعي علامة (✓) أمام العبارة الصحيحة وعلامة (×) أمام العبارة الخاطئة:

للتكرار أنواع متنوعة واتجاهات مختلفة. ( )

برع الفنان في استخدام أنواع التكرار لتزين سطوح المنتجات

استمد الفنان نظمه الزخرفية كالتكرار من وحي خياله. ( )

ظلي الإجابة الصحيحة:

إعادة الشيء مرة بعد الأخرى.

التصميم

الخط

التكرار

اسم الطالبة:

.....

ورقة عمل

المادة : التربية الفنية

الموضوع: مدينتي الصغيرة

اختاري الكلمة المناسبة وضعيها في الفراغ المناسب:

(الخرسانة - الأحجار - الثلج)

- استخدمت ..... والطين لبناء السكن في المناطق الجبلية.
- سكان المناطق الجليدية سكنوا داخل قباب من ..... ليحميهم من الرياح الثلجية والصقيع.

صح أم خطأ!

استخدم الإنسان ما توفره البيئة لسكنه من أدوات وخامات ليبني سكنًا مريحاً وآمنا.

(.....)

تطور سكن الإنسان بحسب البيئة التي يسكنها وحسب المناخ الذي يعيشه.

(.....)

المادة : التربية الفنية

ورقة عمل

اسم الطالبة:

.....

الموضوع : تابع مدينتي الصغيرة

رتبي خطوات إعداد مسكن من الكرتون:

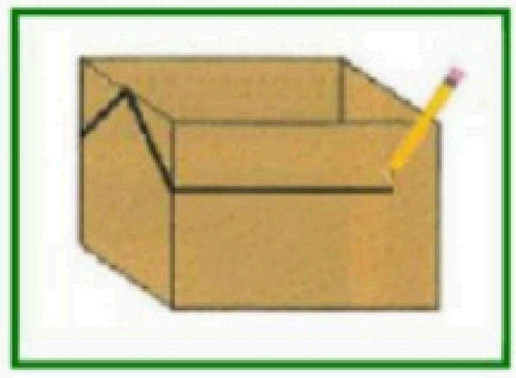

.....

.....

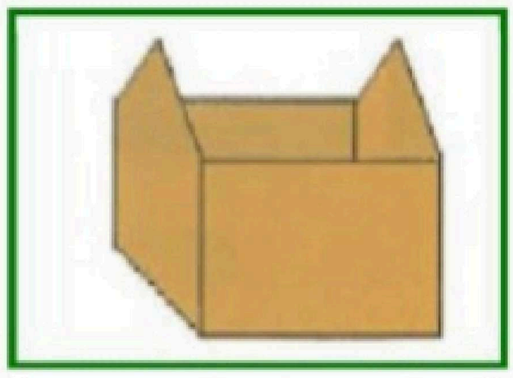

.....

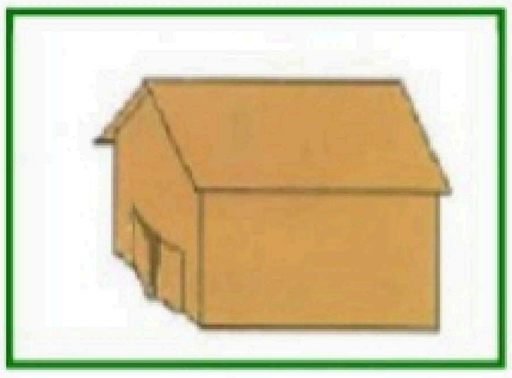

.....

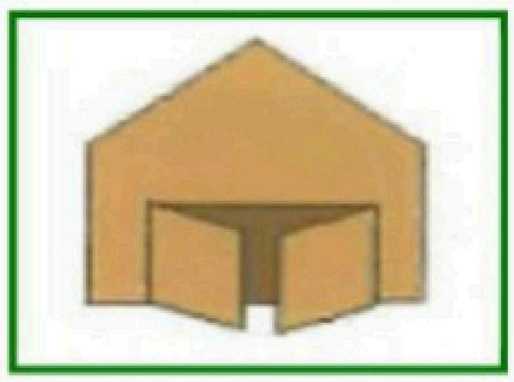

.....

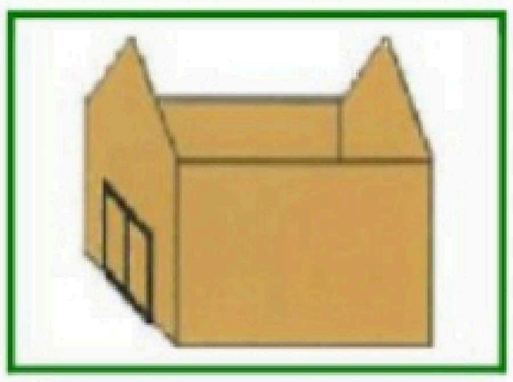

.....

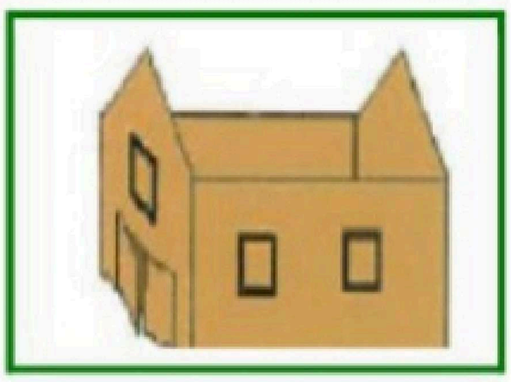

.....

.....

أجيبي بـ نعم أو لا:

مجموعة المساكن تسمى قرية عندما تكون صغيرة.

.....

يمكن الاستفادة من العلب الفارغة في صناعة أشكال صغيرة متنوعة كالمدرسة والمتجر.

.....

المادة : التربية الفنية

ورقة عمل

اسم الطالبة:

.....

الموضوع : الطين +النار= الفخار

أكملي الفراغات التالية بكلمات مناسبة:

..... هي حالة يمر بها الشكل الطيني الجاف الهش ليتحول من ليونته وضعفه.

..... هو كل علم شُكل بالطين وبعد جفافه التام وتعرض لدرجات الحرارة العالية داخل أفران خاصة.

ضعي علامة (✓) أمام العبارة الصحيحة وعلامة (✗) أمام العبارة الخاطئة:

من مواصفات الشكل الطيني الجاف سريع الكسر ويمكن أن يرجع لحالته الأولى. ( )

إن لم يتبخر الشكل الطيني جيداً في مرحلة التجفيف فإن العمل معرضاً للكسر والتلف التام داخل الفرن. ( )

من خطوات تجفيف الشكل الطيني بشكل صحيح تعرضه إلى تيارات الهواء المباشرة. ( )

اسم الطالبة:

.....

ورقة عمل

المادة : التربية الفنية

الموضوع : زخرفة السطوح المتجلدة بتقنية الحز والخدش

ضعي علامة (✓) تحت الإجابة الصحيحة:



إحداث أثر سطحي ذا عمق بسيط لا يقاس على السطح الطيني المتجلد.

التجلد

الخدش على الطين.

تطور تشكيل الأشكال الطينية عن طريق استخدام .....

الحرق

الخدش

عجلة الدولاب

أكملي ما يلي:

يمتاز الفخار الشعبي السعودي بزخارفه و....

- .....
- .....
- .....

اسم الطالبة:

.....

ورقة عمل

المادة : التربية الفنية

الموضوع: الفخار في حياتنا اليومية

رتبي خطوات عمل الماسكة الورقية بخامة الطين:

نبدأ بالتفكير بزخرفة الشكل مستخدمين أدوات الحز والخدش.

.....

في مرحلة التجلد نختار مكان لنكتب تاريخ يوم التنفيذ.

.....

نشكل من الكتلة الطينية الشكل العام للحاملة الم ر قة.

.....

نحدد مكان لوضع ورقة الملاحظات، وذلك باستخدام عرض المسطرة الخشبية.

.....

أجيبي بـ نعم أو لا:

يمكن أن نضغط على الكتلة الطينية وهي رطبة باليد أو ببعض الأدوات الأخرى.

(.....)



مفهوم الضغط في الكتلة الطينية هي كتلة طينية جافة متماسكة غير مفرغة ولا شكل لها. (.....)